XI Commerce

Unit Test-I

2024-25

नवकोकण शिक्षण संस्था

दिनांक :-05/09/2024 डी. बी. जे. महाविद्यालयः, चिपळूणम्

11 कक्ष्या - कला, विज्ञानं, वाणिज्यम् उपस्थिति क्रमांक:

प्रथम सत्र घटकपरीक्षा - 2024 - 25

समयः -1.30 होरा विषयः - संस्कृतम् पृष्ठ – 2 अङ्काः - 25

प्रथमः विभागः - सुगमसंस्कृतम् (4)

प्रश्नः 1 अ) चित्रं दृष्ट्वा भावमुद्रानामानि लिखत। 2

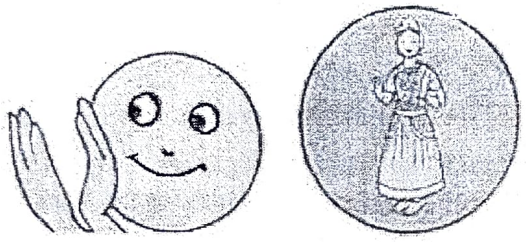

प्रश्नः 1 ब) अधोदत्तान् शब्दान् योग्यस्तबके वर्गीकुरुत। (केवलं 4) 2

(अपूपः, स्वदयन्त्रम्, पर्पटः, वेष्टिः, स्वेदकः, धनाधिकारी)

वस्त्रालयः	आहारः	कोषागारः
------	------	------
------	------	------

द्वितीयः विभागः - गद्यम् (10)

(अवबोधनं, शब्दज्ञानं, स्पष्टीकरणम्)

प्रश्नः 2 अ) गद्यांशं पठित्वा निर्दिष्टाः कृतीः कुरुत। 5

अ 1) अवबोधनम् 3

1) पूर्णवाक्येन उत्तरं लिखत।
जनाः कथं संस्कृतं प्रति आकृष्टाः?

2) रेखाङ्कितं पदम् आधृत्य संस्कृतभाषया प्रश्ननिर्माणं कुरुत।
<u>संस्कृतभाषया</u> वर्णयितुं शक्याः।

3) वाक्यं पूर्णं लिखित्वा सत्यं वा असत्यम् इति लिखत।
पत्रकारिता अभ्यासक्रमः संस्कृतेन अस्ति।

एवं संस्कृतमाध्यमेन पत्रकारितायाः मार्गक्रमणं लक्षणीयम् । संस्कृतभाषा न केवलं पुराणकथाविषये सीमिता अपि तु आधुनिककाले प्रचलिताः सर्वे विषयाः संस्कृतभाषया वर्णयितुं शक्याः। अतः नैके जनाः संस्कृतपत्रकारितया संस्कृतं प्रति आकृष्टाः । संस्कृतेन पत्रकारितां युवकाः वृत्तिरूपेण अपि स्वीकर्तुं शक्नुवन्ति इति विचारेण भारतीय-जनसञ्चार-संस्था (IIMC) द्वारा संस्कृत-पत्रकारिता-अभ्यासक्रमः अपि आरब्धः।

अ 2) शब्दज्ञानम्
1) विशेषणे चित्वा लिखत। संस्कृतभाषा ..... , विषया .....
2) समानार्थकपदे चित्वा लिखत। तरुणा ..... , चिन्तनं .....

प्रश्नः 2 ई) माध्यमभाषया ससन्दर्भं स्पष्टीकुरुत। 5
एवं संस्कृतमाध्यमेन पत्रकारितायाः मार्गक्रमणं लक्षणीयम्।

तृतीयः विभागः - पद्यम् (9)
(अवबोधन, शब्दज्ञान, स्पष्टीकरणम्)

प्रश्नः 3 अ) पद्यांशं पठित्वा निर्दिष्टाः कृतीः कुरुत। 4
अ 1) अवबोधनम् 2
1) नामस्थाने सर्वनाम लिखित्वा वाक्यं पूर्णं लिखत।
सर्वेषु शास्त्रेषु सारं गृह्णन्ति। (तद्)
2) रेखाङ्कितं पदम् आधृत्य संस्कृतभाषया प्रश्ननिर्माणं कुरुत।
षट्पदः पुष्पमध्यस्थः सारम् उद्धरेत्।

षट्पदः पुष्पमध्यस्थो यथा सारं समुद्धरेत् ।
तथा सर्वेषु शास्त्रेषु सारं गृह्णन्ति पण्डिताः ॥८॥

मुक्ताफलैः किं मृगपक्षिणां च मिष्टान्नपानैः किमु गर्दभाणाम्
अन्धस्य दीपो बधिरस्य गीतं मूर्खस्य किं शास्त्रकथाप्रसङ्गः

अ 2) शब्दज्ञानम् 2
1) समानार्थकशब्दं चित्वा लिखत। - भ्रमरः, पक्वान्नम्
2) षष्ठीविभक्त्यन्तपदे चित्वा लिखत।

प्रश्नः 3 इ) माध्यमभाषया ससंदर्भं स्पष्टीकुरुत। 5
सर्वैर्गुणैस्समाविष्टो लघुरूपो निरामयः।

चतुर्थः विभागः - भाषाभ्यासः (2)

इ) तद्धितान्तकृदन्तानि उचितस्तम्भे पूरयत। (4 तः 2) 2

तद्धितान्ताः	कृदन्ताः
.....	.....

(मञ्जूषा - पत्रकारिता, समालोक्य, शैघ्र्यम्, मध्यस्थः)

Date:- ०५/09/2024 Navkonkan Education Society's Roll No.

D.B.J.College, Chiplun

XI – UNIT TEST – 1, Arts, Com, Sci. **2024-25**

Time :-1½ Hrs Sub:- Hindi Pages :- 2 Max.Marks :- 25

कृति १ अ) **निम्नलिखित गद्यांश पढकर सूचना के अनुसार कृतिया कीजिए।** (६ अंक)

दादी ने नरक चौदस के दिन आटे के दीप बनाकर मुख्य द्वार से लेकर हर कमरे की देहरी जगमगा दी थी। घर पकवान की खुशबू से तरबतर था। गुझिया,पपड़ी, चकली आदि सब कुछ था। मगर दस वर्षीय उषा को तो चॉकलेट और बंगाली मिठाइयाँ ही पसंद थीं। दादी कहती हैं कि तेरे लिए तेरी पसंद की मिठाई ही आएगी। यह सब तो पड़ोसियों, नाते–रिश्तेदारों, घर आए मेहमानों के लिए हैं। आटे के दीपक कंपाउंड की मुंडेर पर जलकर सुबह तक बुझ गए थे। उषा जॉगिंग के लिए फ्लैट से नीचे उतरी तो उसने देखा पूरा कंपाउंड पटाखों के कचरे से भरा हुआ था। उसने देखा, सफाई करने वाला बबन उन दीपों को कचरे के डिब्बे में न डाल अपनी जेब में रख रहा था। कृशकाय बबन कंपाउंड में झाड़ू लगाते हुए हर रोज उसे सलाम करता था। "तुमने दीपक जेब में क्यों रख लिए उषा ने पूछा । घर जाकर अच्छे से सेंककर खा लेंगे, अन्न देवता हैं न। बबन ने खीसे निपोरे।।

१) **संजाल पूर्ण कीजिए।** २ अंक

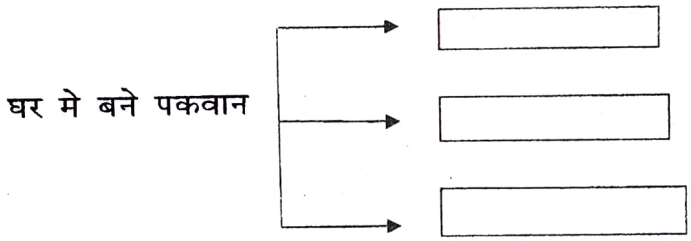

२) **निम्नलिखित शब्दोंके समानार्थी शब्द लिखिए ।** २ अंक

१) दिपक — २) खुशबू — ३) मेहनत — ४) घर —

३) **अन्न बैंक की आवश्यकता इस विषय पर अपने विचार लिखिए।** २ अंक

कृति १ आ) **निम्नलिखित सवालों के जवाब ८० से १०० शब्दों में लिखिए। (३ मे से २)** (६ अंक)

१) 'मेरा भला करने वालों' से बचाए इस पाठ के आधार पर ग्राहकों की वर्तमान स्थिति का चित्रण किजिए।

२) 'मुस्कुराती चोट' शीर्षक की सार्थकता स्पष्ट किजिए।

३) 'उषा की दीपावली' लघुकथा द्वारा प्राप्त संदेश लिखिए।

कृति – २ अ) **निम्नलिखित पदयांश पढकर उसपर पूछे गए प्रश्नों के उत्तर लिखिए।** (६ अंक)

माँ मेरी बेवजह ही रोती है
फोन पर जब भी बात होती है
फोन रखने पर मैं भी रोता हूँ।

सख्त ऊपर से मगर दिल से बहुत नाजुक हैं
चोट लगती है मुझे और वह तड़प उठते हैं
हर पिता में ही कोई माँ भी छुपी होती है।

मेरे ऑफिस में महीनों से मेरी दिन की शिफ्ट
तेरे ऑफिस में महीनों से तेरी रात की शिफ्ट
नन्हे बच्चों को तो टुकड़ों में मिले हैं माँ–बाप

१) **आकृती पूर्ण किजिए :** २ अंक

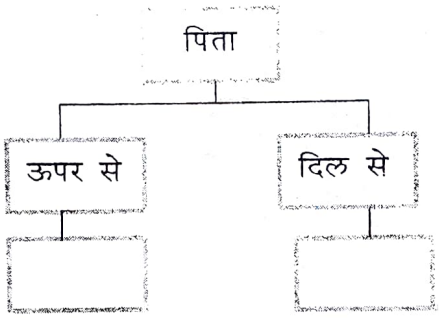

२) **निम्नलिखित शब्दोंके लिंग परिवर्तन किजिए** २ अंक

१) माँ – २) बेटा – ३) बच्चा – ४) पिता –

३) **पालनाघर की आवश्यकता इस विषय पर अपने विचार लिखिए।** २ अंक

कृति – २ आ) **निम्नलिखित मुद्दों के आधार पर 'पंद्रह अगस्त' कविता का रसस्वादन किजिए।** (७ अंक)

१) रचनाकार का नाम
२) 'पसंद की पंक्तीया
३) पसंद आने के कारण
४) कविता का केंद्रीय भाव

अथवा

२) परतंत्रता के संदर्भ मे अपने विचार लिखिए ।

Navkonkan Education Society's
D.B.J. College, Chiplun
Std- XI Arts/Com/Sci.
Unit Test – 1, 2024-25
Sub- **Marathi**

Date:-04/09/2024 Seat No./Roll No.

Time- 1½ hrs. Pages:- 01 Max.Marks- **25**

कृती १ खालील उताऱ्याच्या आधारे सूचनेनुसार कृती करा. (०५)

१. मॅकबेथ आणि किंग लियरच्या नाटकातील संवाद वैशिष्टये (१)



२. पुस्तके कधीच ..... नसतात. (१)

काही पुस्तकं आपल्याला झपाटून टाकतात. अंत:करणात भावनांची प्रचंड खळबळ उडवून देण्याची त्यांच्यात शक्ती असते. अशी पुस्तकं कधी विसरता येत नाहीत. दीर्घकाळ टिकणाऱ्या सुगंधाप्रमाणे ती पुस्तकं मनात दरवळत राहतात. उत्तम साहित्यकृतीचे वाचन करत राहणं यासारखं दुसरं उत्तेजक आणि आनंददायक काही असेल का? मॅकबेथ आणि किंग लेयर या नाटकांतले काही संवाद इतके काव्यात्म, इतके अर्थगर्भ आणि इतके भावस्पर्शी आहेत, की प्रत्येक वाचनाच्या वेळी अधिक उत्कट अनुभूती देत राहतात. अशा वाचनाची नशा और असते. सुखाविषयीच्या माझ्या कल्पनेतून पुस्तकं वगळली तर सारं सुखच संपुष्टात आलं असं म्हणावं लागेल. जवळचे मित्र दुरावतात. ज्यांच्यावर प्रेम केलं त्यांनाही त्या प्रेमाची विस्मृती होते आणि वैराची अग्नी ते पेटवत ठेवतात. हातात आलेला पैसा कसा आणि केव्हा नाहीसा होतो ते कळतही नाही; पण पैसा आणि माणसं यांच्याप्रमाणं पुस्तकं कधीच विश्वासघातकी असत नाहीत. त्यांना स्पर्श करण्याचा अवकाश. भावनांनी आणि विचारांनी ओसंडणारं आपलं अंत:करण ते उघडं करतात. 'माझ्या अंतरंगात त्या थोर लेखकानं साठवलेलं हे भांडार तुझंच आहे. जे आवडेल ते खुशाल घेऊन जा' असंच जणून पुस्तक आपल्याला सांगत असतं. पुस्तकांवर आत्यंतिक प्रेम करणारी माणसं मी पाहिली आहेत. आपल्या कपाटात जिवापाड जपून ठेवलेलं पुस्तक दुसऱ्याला देताना ती अगदी व्याकूळ झालेली असतात.

३. मानवी जीवनातील पुस्तकाचे महत्त्व १० ते १२ ओळींत तुमच्या शब्दांत लिहा. (३)

कृती २ खालील कवितेच्या आधारे सूचनेनुसार कृती करा. (०५)

१. कवयित्रीने जिला विनंती केली ती – ..... (१)

२. कवयित्रीने यांच्या हाती सांगावा पाठवला आहे– ..... (१)

पीठ कांडते राक्षसी
तसें कडाडतें ऊन:
प्राणसई घनावळ
कुठे राहिली गुंतून?

दिला पाखरांच्या हातीं
माझा सांगावा धाडून:
ये ग ये ग घनावळी
मैत्रपणा आठवून...

पडवळा –भोपळयांचीं
आळीं ठेविलीं भाजून,
हुडा मोडून घरांत
शेणी ठेविल्या रचून,

बैल झाले ठाणबंदी,
झाले मालक बेचैन,
तोंडे कोमेलीं बाळांचीं
झळा उन्हाच्या लागून,

३. तुमच्या परिसरातील पावसाळयापूर्वीच्या स्थितीचे वर्णन करा. (३)

कृती ३. सूचनेनूसार कृती सोडवा. (१०)

१) खाली दिलेल्या पर्यायातून उपसर्गघटित शब्द ओळखून लिहा. (१)
य) दुकानदार र) भरदिवसा ल) झोपाळू व) गुलामगिरी

२) खाली दिलेल्या पर्यायातून प्रत्ययघटित शब्द ओळखून लिहा. (१)
य) अगणित र) साथीदार ल) अवघड व) बेडर

३) खाली दिलेल्या पर्यायातून अंशाभ्यस्त शब्द ओळखून लिहा. (१)
य) वैचारिक र) भाजीबिजी ल) सामाजिक व) गोडवा

४) खाली दिलेल्या पर्यायातून पूर्णाभ्यस्त शब्द ओळखून लिहा. (१)
य) सादरीकरण र) सूत्रसंचालन ल) तिळतिळ व) समाधान

५) मुळ शब्दशक्ती ..... आहेत. (१)
य) एक र) दोन ल) तीन

६) 'मी वि. स. खांडेकर वाचले' या वाक्यातील शब्दशक्ती लिहा. (१)
य) अभिधा र) लक्षणा ल) व्यंजना

७) सुलभता, सोपेपणा या अर्थाचा काव्यगुण ओळखा. (१)
य) प्रसाद र) माधुर्य ल) ओज

८) 'ओज' या काव्यगुणाचा लक्षण (उदा) ओळखा. (१)
य) सहज अर्थबोध होतो. र) अंगात वीरश्री संचारते. ल) शब्द मधुर व सुखद वाटतात.

९) ..... ही शब्दाची पहिली शक्ती आहे. (१)
य) व्यंजना र) लक्षणा ल) अभिधा

१०) घेई छंद मकरंद, प्रिय हा मिलिंद, मधुसेवनानंद स्वच्छंद, हा धुंद. (काव्यगुण ओळखा.) (१)
य) प्रसाद र) माधुर्य ल) ओज

कृती ४ खालीलपैकी कोणतीही एक कृती सोडवा. (०५)

१. सूत्रसंचालन म्हणजे काय ते सांगून सूत्रसंचालनाचे स्वरूप स्पष्ट करा (१५ ते २० ओळींत)

किंवा

२. 'सूत्रसंचालनाच्या पूर्वतयारीसाठी वाचन महत्त्वाचे आहे.' हे १५ ते २० ओळींत स्पष्ट करा.

Date:- 0 2 SEP 2024

Navkonkan Education Society's
D.B.J.College Chiplun
Std- XI Sci/Com/Arts
Unit Test – I 2024 - 25

Roll No.

Time-1½ hrs.

Sub-English

No. Of Pages-2

Marks - 25

Q.1] Read the extract and complete the activities that follow. **12**

Two or three people could stand there on the roof of the world if you cut ice. Twenty or 30 feet below the top, there was enough flat square for two people to sleep. You could pitch one tent there.
The summit is flat on one side and steep on the other. There is snow on the northern side, rocks on the South and East and snowy rock on the West. We stayed on the top a little more than fifteen minutes. We were lucky that there was no gale, or it would have swept us off. My next thought was how to get down safely.
On the descent from the summit, I was walking behind Hillary. I was following him and holding the rope tightly, and my determination was to make sure he descended safely. I must say that the climb down was more difficult and dangerous than the climb up. If you slipped down, you would go into Kangshung glacier and there would be no trace left of you.
More Caution Needed Of course it took less time climbing down, but you needed more "husiar" (caution). When I reached Camp Nine, my first thought was: "Thank God we have been spared an accident, and if up to now there have been no accidents I hope there will be none in future." I had always prayed to God and he had saved me.
At Camp Nine, Hillary and I were in no mood for any talking. We just attended to our own things. We stayed there about half an hour. We boiled some snow to make lemon water and drank it. When we left, we took only our sleeping bags and left everything else behind in the tent. From Camp Nine to Camp Eight, where we spent the night, was an easier job.

A1] State whether the following statements are true or false. **2**

1) Tenzing and Hillary were lucky that there was gale.
2) It took less time while climbing down
3) They both stayed on the top for the whole night.
4) Tenzing hoped that there would be no accidents in future.

A 2] Describe the roof of the world briefly. **2**

A3] Tenzing was very caring towards Hillary. Explain how it gets reflected from the extract. **2**

A 4] Hope is something that keeps us going to achieve something. Write your experience when you hoped and achieved something you wished for. **2**

A 5] Do as directed. **2**

1) He had saved me. (Begin your sentence with I and rewrite)
2) I must say that climb down is more difficult and dangerous than climb up. (Use modal auxiliary showing ability and rewrite)

A 6] Match the pairs of synonyms. **2**

'A'	'B'
1) Gale	a) caution
2) Husiyar	b) peak
3) Summit	c) climbing down
4) Decent	d) strong wind

Q.2 A] Read the extract and complete the activities that follow. 10

Sitting in a Porchway cool,
Sunlight, I see, dying fast,
Twilight hastens on to rule.
Working hours have well-nigh past.
Shadows run across the lands:
But a sower lingers still,
Old, in rags, he patient stands.
Looking on, I feel a thrill.
Black and high, his silhouette
Dominates the furrows deep!
Now to sow the task is set.
Soon shall come a time to reap.
Marches he along the plain
To and fro, and scatters wide
From his hands the precious grain;
Muse I, as I see him stride.
Darkness deepens. Fades the light.
Now his gestures to mine eyes
Are august, and strange, his height
Seems to touch the starry skies.

A.1] Complete the following web. 2

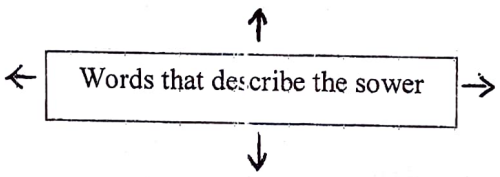

A.2] The poet was greatly impressed by the sower. Give reasons. 2

A.3] Write your own experience where you have taken a lot of efforts to achieve something. 2

A.4] Write one example each of the following figures of speech from the extract. 2

i) Personification

ii) Alliteration

A.5] Compose your own poem of four lines with proper rhyme scheme on the topic 'My Work'. 2

Q.2B] Frame a Mind Map on the topic - 'Types of Sports'. 3

Extra

Navkonkan Education Society's

D.B.J.College, Chiplun

Date-04/09/2024 STD- XI Commerce Seat No /Roll No-_____

Unit Test -1 2024-25

Time – 1 ½ hrs Subject – I.T. Pages -1 Max. Marks - 25

Note : All questions are compulsory.

Q.1) Fill in the blanks **(05)**

1. TCP/IP stands for.....
2. 1 MB = ...KB
3. ..... directory is used to store temporary files in linux.
4. ----- Protocol is used to receive the emails and maintains the copy of mail on server.
5. .....memory is also called as volatile memory.

Q.2) State TRUE or FALSE **(05)**

1 Open source software refers that software is having closely guarded source code.

2 CPU is an example of software.

3 Memory is responsible for coordinating tasks between all components of computer.

4 In LAN, due to long distance transmission noise and error tends to be more.

5 Linux is closed source software.

Q.3) Multiple Choice Single Answer. **(05)**

1 Which of the following is the largest network among all?
a) LAN b)MAN c)WAN d)PAN

2 Which of the following operating system is virus free?
a)Windows b)MAC c)Linux d)Android

3 ..... command of linux is used to create new file.
a) nano b)touch c)whoami d)echo

4 ....protocol is used to send emails
a)FTP b)IMAP c)POP3 d)SMTP

5 .....is the study and practice of environmentally sustainable computing.
a)Internet of things b)cloud computing c)Green computing d)AI

Q.4) Multiple Choice Multiple Answer.(Two answers) **(06)**

1 What are the valid mobile operating systems?
a) Asha b)Mac c)Chrome os d) iOS e)Windows phone

2 Give examples of application software.
a)linux b) Ms paint c)windows d) Ms word e) android

3 Find out valid directories from linux file system hierarchy.
a)/tmp b)/lscpu c)/pwd d)/home e)/bin

Q.5) Answer in Brief.(any 2) **(04)**

1 Define network. Explain LAN.

2 Define protocol. Explain any two protocols.

3 Explain client-server architecture.

x-x-x-x-x-x-x-x-x-x-x-x-

Date:- 04 SEP 2024 Roll No:-

Navkonkan Education Society's

D.B.J.College, Chiplun

XI- Commerce (A/B/C/D)

UNIT TEST-1 (2024-25)

Marks:- 25 **Subject:- Secretarial Practice** **Time:-1.30hrs.**

प्रश्न.1 खालील संज्ञा /संकल्पना स्पष्ट करा.(कोणतेही.2) 04

1. चिटणीस
2. निष्ठा
3. एक व्यक्ती कंपनी
4. प्रवर्तक
5. कंपनी ओळख क्रमांक

प्रश्न.2 फरक स्पष्ट करा. (कोणतेही.2) 08

1. खाजगी चिटणीस आणि कंपनी चिटणीस
2. नफा हेतू नसणाऱ्या संस्थेचा चिटणीस आणि सहकारी संस्थेचा चिटणीस
3. भागीदारी संस्था आणि संयुक्त भांडवली संस्था
4. खाजगी कंपनी आणि सार्वजनिक कंपनी

प्रश्न.3 खालील विधाने सकारण स्पष्ट करा.(कोणतेही.1) 05

1. चिटणीस हा पगारी नोकर आहे.
2. व्यक्तीचीच नियुक्ती चिटणीस म्हणून केली जाते.
3. संयुक्त भांउवली संस्था ही कृत्रिम व्यक्ती समजली जाते.

प्रश्न.4 खालील प्रश्नांची उत्तरे लिहा. .(कोणतेही.1) 08

1. संयुक्त भांडवली संस्थेची व्याख्या सांगा व त्यांची वैशिष्टये लिहा.
2. 'चिटणीस' या शब्दाची संकल्पना आणि चिटणीसाचे महत्व स्पष्ट करा.

Date:- 04 SEP 2024 Roll No:-

Navkonkan Education Society's

D.B.J.College, Chiplun

XI- Commerce A/B/C/D

UNIT TEST-1 (2024-25)

Marks:- 25 **Subject:- Secretarial Practice** **Time:-1.30hrs.**

Q.1 **Explain the following Terms/Concepts(Any-2)** **04**

1. Secretary
2. Loyalty
3. One person company
4. Promoters
5. CIN

Q.2 **Distinguish Between (Any-2)** **08**

1. Personal Secretary and Company Secretary
2. Secretary of Not-for profit concern & secretary of co-operative society
3. Partnership firm and Joint stock company
4. Private company and Public company

Q.3 **Justify the following statements (Any-1)** **05**

1. A secretary is considered as a paid employee.
2. Only individuals can be secretary.
3. Joint stock company is an artificial person.

Q.4 **Answer the following questions (Any-1)** **08**

1. Define Joint stock company and explain its features.
2. Explain the term Secretary and state importance of secretary.

XXXXXXXXXX

Date: 04/09/2024	NavKonkan Education Society's D.B.J. COLLEGE, CHIPLUN UNIT TEST 1, 2024-25	ROLL NO :
Std : XI Marks : 25	Subject : Mathematics (88) (Commerce)	Pages : 2. Time : 1½ Hours

Q 1. A) Select and write the most appropriate answer from the given alternatives for each question. **(1 mark each) [7]**

i) The only set among following is

a) Successful persons in your city. b) Clever students in your class.

c) Smart Cricketers in India d) Days in a week.

ii) The number 5 belongs to the interval

a) [5,8] b) (5,8] c) (5,8) d) [2,5)

iii) If $U = \{x / x \in N, 1 \leq x \leq 12\}$, $A = \{1, 4, 7, 10\}$, $B = \{2, 4, 6, 7, 11\}$ then the set $A - B$ is

a) {4,7} b) {1,10} c) {2,6,11} d) {1,3,5,8,9,10,12}

iv) 'a' number of quartiles divide the entire data into 'b' equal parts then

a) a = 4, b = 3 b) a = 3, b = 4 c) a = 4, b = 4 d) a = 3, b = 3

v) With usual notations, which of the following is not correct ?

a) 3^{rd}decile = 30th percentile b) second quartile = median

c) upper quartile = 75th percentile d) Third quartile = 25th Percentile.

vi) If n(A) = 12, n(B) = 5 then number of elements in the cross product AxB is.....

a) 5 b) 12 c) 17 d) 60

vii) The range of constant function is .....

a) Singleton set b) Null set c) infinite set d) finite set with more than 2 elements.

B) Attempt any two of the following questions. **(2 marks each) [4]**

i) If $f(m) = m^2 - 3m + 1$ then find value of f(-3)

ii) Write the following set in set builder form : { red, orange, yellow, green, blue, indigo, violet }

iii) Find the third quartile for the data :148, 171, 153, 151, 154, 159, 152, 163, 171, 145

Q 2. Attempt any two of the following questions. **(3 marks each) [6]**

i) If $f(x) = \frac{2x-1}{5x-2}, x \neq 2/5$, Find $f_o f(x)$

ii) Calculate 65th percentile for the following data

X	80	100	120	145	200	280	310	380	400	410
F	15	18	25	27	40	25	19	16	8	7

iii) In a group of 25 students7 students fail and 6 students got distinction and the marks of remaining 12 students are 61, 36, 44, 59, 52, 56, 41, 37, 39, 38, 41, 64. Find the median marks of the whole group.

iv) In a survey of 425 students in a school, it was found that 115 drink Tea, 160 drink Coffee and 80 drink both the beverages, How many drink neither tea nor coffee? How many drink exactly one drink?

Q3. Attempt any two of the following questions. **(4 marks each)[8]**

i) If $f(x) = 3x - 5$, and $g(x) = 2x^2 - 3x + 2$, then find f_og and g_of.

ii) The weekly wages for a group of 100 persons are given below, D3 for this group is Rs.1100, Calculate the missing frequencies.

Wages in Rs	0-500	500-1000	1000-1500	1500-2000	2000-2500
Number of persons	7	?	25	30	?

iii)Determine the domain and range of the following relations

a) $R = \{ (a,b) / a \in N, a < 5, b = 11 \}$

b) $F = \{ (a,b) / a \in N, 9 < a < 15, b \in Z, -2 < b < 2 \}$

Date:- 0 5 SEP 2024 Roll No:- | | |

Navkonkan Education Society's

D.B.J.College, Chiplun

XI - Commerce (B)

UNIT TEST-1 (2024-25)

Marks:- 25 **Subject:- Banking Paper-II** **Time:-1.30hrs.**

Q.1 **Answer in short any five of the following** **(10)**

1. Who is a Banker ?
2. What is Signature card ?
3. What is Recurring deposit account & current deposit account ?
4. Write any two process of opening Saving Bank account?
5. What is withdrawal slip ?
6. State any two kinds of Advances.
7. Which document is useful for collecting money & Depositing cash ?

Q.2 Define Bank. Explain Secondary functions of Bank. **(10)**

OR

Explain various kinds of Deposit accounts.

Q.3 **Draw the specimen of the following with particulars** **(05)**
[Any-1]

1. Pass Book
2. Pay-in Slip of Saving Deposit account
3. Withdrawal Slip

*****

Navkonkan Education Society's

D.B.J. COLLEGE, CHIPLUN

Std - XI COMMERCE

UNIT TEST- 1, 2024-25

Sub - BANKING (PAPER - I)

Date: 04/09/2024 | Roll No. _____

Time: 1½ Hours | Max. Marks: 25

Instructions: (1) All questions are compulsory.
(2) Figures to the right indicate full marks.

1 (A) Fill in the blanks : 05

(a) _____Act 1949 defines Banking.
(b) The word 'Bank' may be derived from Italian word _____.
(c) Agency Functions of banks are known as ---------- functions of banks.
(d) _____ means exchange of goods & services between two persons for money or money's worth.
(e) Bank of India is established in the year _____.

(B) Answer the following questions in one or two lines 05

(a) Define a 'Bank'.
(b) Explain any two objectives of Book-keeping & accountancy.
(c) Quote any four names of Banks.
(d) What do you mean by primary functions of banks?
(e) What do you mean by 'capital'?

2 Write short notes on any two of the following: 10

(a) History of Banks in India
(b) Objectives of Banking Regulation Act 1949
(c) Types of Accounts

3 Journalize the following transactions in the book's of Mrs. Meera 05

May, 2023 1.	Meera started business with cash Rs. 1,00,000/-
2	Opened an account into Bank of India with cash Rs. 30,000/-.
7	Purchased goods of Rs. 10,000/- at 10% T.D.
12	Purchased furniture of Rs. 5,000/-.
20	Cash Sales Rs. 5,000/-.

****

Date : 0 3 SEP 2024

Navkonkan Education Society's

D. B. J. College, Chiplun

Roll No.

XI Unit Test 1 (2024-25)

Time : 1.30 Hrs. **Sub : Book-Keeping and Accountancy** **Page : 1** **Marks: 25**

Note : All questions compulsory.

Q. 1 A Write one word/term or phrase which can substitute each of the following statements: **(05)**

1. Exchange between two persons.
2. Scientific system of recording business transactions.
3. A book of prime entry.
4. Person who invented the Double Entry System.
5. Property of any description owned b fay Proprietor.

B. Select the most appropriate alternatives from those given below & rewrite the statements: **(05)**

1. Surplus of income over expenses is .....
   a. Profit b. Deficit c. Loss d. Financial statements

2. Radha's Account is a type of ..... Account.
   a. Nominal b. Personal c. Real d. Expenses

3. ..... means explanation of the transactions recorded in the journal.
   a. Narration b. Posting c. Casting d. Journalising

4. ..... = Capital + Liabilities
   a. Expenses b. Assets c. Income d. Profit

5. Debit what comes in & Credit what .....
   a. Expenses &losses b. Income or Gains c. Giver d. Goes out

Q. 2 Journalising the following transactions in the books of Niraj Jan 2024 **(10)**

1. Started business with Cash Rs. 1,00,000; Building Rs. 60,000; Machinery Rs. 55,000
2. Deposited into Axis Bank Rs. 10,000 & Dena Bank Rs. 20,000
3. Purchased Car Rs. 60,000 @ 12% GST
4. Paid Salary to Sanjay by chequeRs. 15,000
5. Received Commission Rs. 2,000
6. Drew from bank for personal use Rs. 4,000

Q. 3 Prepare a chart showing Analysis of the following transactions in a Tabular form according to Traditional Approach **(05)**

Transactions	Accounts involved	Types of Account	Rule applied	Dr./ Cr.
1. Rajasaheb started business with cash				
2. Goods Purchased for cash				
3. Sold goods on credit				
4. Cash deposited into Bank of Maharashtra				
5. Interest received from Radhika				

---------- -------XXXXXXXXXXXXXXXXX----------

Date:02/09/2024

Navkonkan Education Society's
D B.J College, Chiplun
Std-XI Commerce D
Unit Test-1, 2024-2025

Roll No. | | | |

Time: -1½Hrs. Sub:–**Organization of commerce and Management** Pages:-1 Max.Marks:– 25

प्र. 1. अ) रिकाम्या जागी योग्य पर्याय निवडून विधाने पुन्हा लिहा. **(04)**

1) धरण बांधण्यासाठीचे काम _____ _____ उद्योगा अंतर्गत केले जाते.

अ) प्राथमिक ब) दुय्यम क) सेवा

2) व्यवसायातील उत्पादन विक्रीसाठी _ ___ अवलंबून असतात.

अ) उद्योगावर ब) समाजावर क) कर्मचाऱ्यांवर

3) _____ हे स्वयंसेवा पद्धतीचे दुकान म्हणून ओळखले जाते.

अ) एकछती दुकान ब) सुपर बाजार क) मल्टिपल स्टोअर्स

4) किरकोळ व्यापारी बाजारपेठेतील माहिती घाऊक व्यापाऱ्याद्वारे _____ला पुरवितात.

अ) उत्पादक ब) सरकार क) उपभोक्ता

ब) योग्य शब्द, शब्दसमूह, संज्ञा लिहा. **(04)**

1) ज्या दुकानात एकच निश्चित किमतीत मालाची विक्री केली जाते ते दुकान.
2) एका ठिकाणाहून दुसऱ्या ठिकाणी दररोज जाऊन मालाची विक्री करणारी व्यक्ती.
3) जी कृती मानवाकडून पैसे मिळविण्यासाठी केली जाते.
4) अशी कृती जी व्यापारातील अडचणी दूर करते.

क) चूक की बरोबर ते लिहा. **(04)**

1) व्यापारामध्ये वाणिज्यचा समावेश होतो.
2) प्रत्येक पेशा हा पैसा मिळविण्यासाठी केला जातो.
3) एकछती दुकाने शहराबाहेर स्थापन केलेली असतात.
4) दुसऱ्या देशातून वस्तूंची खरेदी करणे याला निर्यात व्यापार असे म्हणतात.

ड) खालील वाक्यातील अधोरेखित शब्द दुरुस्त करून वाक्य पुन्हा लिहा. **(04)**

1) <u>घाऊक व्यापाऱ्यास</u> कमी भांडवलाची आवश्यकता असते.
2) विविध राष्ट्राचे जकात कर <u>अंतर्गत व्यापारावर</u> परिणाम करतात.
3) <u>नोकरीसाठी</u> भांडवलाची गरज असते.
4) व्यवसायाचा मुख्य उद्देश <u>सेवाप्रदान</u> करणे होय.

प्र.2. संज्ञा / संकल्पना स्पष्ट करा. [कोणत्याही दोन] **(04)**

1) नोकरी 2) देशी व्यापार 3) मॉल 4) घाऊक व्यापार

प्र.3. खालील प्रश्न सोडवा. [कोणताही एक] **(05)**

किरकोळ व्यापाऱ्याकडून ग्राहकांना देल्या जाणाऱ्या सेवा स्पष्ट करा.

किंवा

व्यवसायाची उद्दिष्टे स्पष्ट करा.

0-1 = 29

Date:02/09/2024 | Navkonkan Education Society's | Roll No.

D B.J College, Chiplun

Std-XI Commerce A/B/C

Unit Test-1, 2024-2025

Time: -1½Hrs. Sub:–**Organization of commerce and Management** Pages:-1 Max.Marks:– 25

Q.1 A) Select the correct option and rewrite the sentence. **(Marks 4)**

1) Construction of dam is an activity done under _____ industry.

a) Primary b) secondary c) tertiary

2) A business unit depends upon _____ for selling its output.

a) Industry b) society c) employees

3) _____ Is known as self-service store

a) Department store b) supermarket c) multiple store

4) Retailers supply information to the _____ through wholesalers.

a) Manufacturers b) government c) consumers

B) Write one word/term/phrase **(Marks 4)**

1) A shop where all goods are available at same price

2) A person who moves daily from place to place to sell goods.

3) Human activities that are conducted for earning money.

4) Activities that remove all the difficulties in trade.

C) State True or False **(Marks 4)**

1) Trade includes commerce.

2) Every profession is practiced for earning money

3) Departmental store located out of the city

4) Buying goods from other country is known as export trade.

D) Correct the underlined word & rewrite the sentences **(Marks 4)**

1) Wholesaler requires less capital

2) Tariff rates of various countries affect the internal trade.

3) Capital is required for employment

4) The basic purpose of business is to provide services.

Q.2) Explain the following terms/concepts (any 2) **(Marks 4)**

1) Employment 2) Home trade 3) Mall 4) Wholesale trade

Q.3) Answer in Brief (any 1) **(Marks 5)**

Write services of retailers to consumers

OR

Write objectives of business.

Date:- 0 3 SEP 2024

Navkonkan Education Society's
D.B.J.College Chiplun
Std. –XI Arts &Commerce
Unit Test – 1, 2024 - 25

Roll No. ☐☐☐

Time:- 1.30 Hrs. Sub – Economics Page No.1 Marks - 25

Q1 A Choose the Correct Option **03**

1. Key points of Lionel Robbin's definition:
   a) Wants are unlimited
   b) Means are limited
   c) Wants are not gradable
   d) Means have alternative uses

   Options:1) a and b 2) b and c 3) a, b, and d 4) a, b, c and d

2. Arrange in the order of evolution of money.
   a) Plastic money b) Paper Money c) Electronic money d) Credit money

   Options: 1) b,d,a,c 2)a,b,c,d 3) d,c,b,a 4) c,b,a,d

3. Statements related to wealth:
   a) Wealth is any thing which has market value and can be exchange for money
   b) It is external to human body
   c) Wealth has no utility
   d) Wealth is scarce and exchangeable

   Options: 1) a, b and d 2) a, c and d 3) b, c and d 4) a, b, c and d

B. Complete the correlation: **03**

1. Physics: ☐ :: Psychology : Social science
2. Commodity money : Shells :: ☐ : Credit card
3. Barter system: Goods :: Modern economy ☐

C. Give Economic Term **03**

1. A system in which goods are exchange for goods.
2. Want satisfying power of a commodity.
3. Any natural resource that is available on, above and below the surface of the earth.

Q2. A. Identify and explain the concepts from the given illustrations: (Any 2) **04**

1. A study of the annual income of the family of Ramesh.
2. Charu used her debit card to purchase a shirt for her younger brother.
3. Grand mother wants spiritual books for reading and grandson wants toyes.

B. Distinguish between: (Any 2) **04**

1. Economic Growth and Economic Development
2. Paper Money and Electronic Money
3. Economic wants and Non-economic want

Q3. Answer the following (Any 1) **04**

1. Explain value- in- use and Value- in- exchange.
2. Write primary and secondary functions of money (any four)

Q4. State with reasons whether you agree or disagree with the following statements. (Any 1) **04**

1. There are no difficulties in barter system.
2. Human wants change as per the seasons and preferences

तारीख: 0 3 SEP 2024

नवकोकण एजुकेशन सोसायटीचे,
डी. बी. जे. कॉलेज, चिपळूण
वर्ग – ११ वी कला आणि वाणिज्य
विषय- अर्थशास्त्र

रोल नंबर
गुण: २५
पेज : १

वेळ: १ तास ३० मिनिटे

प्र.१ अ **योग्य पर्याय निवडा** ०३

१ लिओनेल रॉबिनच्या व्याख्येतील प्रमुख मुद्दे:
अ) गरजा अमर्याद असतात.
ब) साधने मर्यादितअसतात.
क) गरजा क्रमवारी लावण्या योग्य नसतात.
ड) साधनांचे पर्यायी उपयोग आहेत
पर्याय: १) अआणि ब २) ब आणि क ३) अ, ब, आणि ड ४) अ, ब, कआणि ड

२ पैशाच्या उत्क्रांतीच्या क्रमाने रचना करा.
अ)प्लास्टिक पैसा ब) कागदी नोटा क) इलेक्ट्रॉनिक मनी/पैसा ड)क्रेडिटमनी/पैसा
पर्याय: १) ब,ड,अ,क २) अ,ब,क,ड ३) ड,क,ब,अ ४) क,ब,अ,ड

३ संपत्तीशी संबंधित विधाने:
अ) संपत्ती ही अशी कोणतीही वस्तू आहे जीला बाजार मूल्य आहे आणि पैशाची देवाणघेवाण होऊ शकते
ब) संपत्ति मानवी शरीर बाह्य आहे
क) संपत्तीत उपयोगिता नसते
ड) संपत्ती दुर्मिळ आणि देवाणघेवाण करण्यायोग्य असते
पर्याय: १) अ, बआणि ड २) अ, कआणि ड३) ब, कआणि ड४) अ, ब, क आणि ड

०३

ब **सहसंबंध पूर्ण करा:**
१. भौतिकशास्त्र : ..... :: मानसशास्त्र : सामाजिकशास्त्र
२. वस्तू पैसा : शिंपले :: ..... : क्रेडिट कार्ड
३. **वस्तु विनिमय पद्धत** : वस्तू :: आधुनिक अर्थव्यवस्था : .....

०३

क **आर्थिक संज्ञा लिहा.**
१. एक पद्धत ज्यामध्ये वस्तूं- वस्तूंची परस्पर देवाणघेवाण होते.
२. वस्तूमधील मानवी गरज भागवण्याची क्षमता.
३. पृथ्वीच्या पृष्ठभागावर, वर आणि खाली उपलब्ध असलेली कोणतीही नैसर्गिक संसाधने

०४

प्र२. अ. **संकल्पना ओळखा आणि स्पष्ट करा: (कोणतेही २)**
१. रमेशच्या कुटुंबाच्या वार्षिक उत्पन्नाचा अभ्यास.
२. चारूने तिच्या लहान भावासाठी शर्ट खरेदी करण्यासाठी तिचे डेबिट कार्ड वापरले.
३. आजीला वाचण्यासाठी आध्यात्मिक पुस्तके हवी आहेत आणि नातवाला खेळणी हवी आहेत.

०४

ब. **फरकस्पष्ट करा: (कोणतेही २)**
१. आर्थिक वृद्धी आणि आर्थिक विकास
२. कागदी नोटा/चलन आणि इलेक्ट्रॉनिक पैसा
३. आर्थिक इच्छा आणि आर्थिकेतर इच्छा

०४

प्र.३ **खालील प्रश्नांची उत्तरे द्या (कोणताही १)**
१. उपोयोगिता मूल्य आणि विनिमय मूल्य या संकल्पना स्पष्ट करा.
२. पैशाची प्राथमिक आणि दुय्यम कार्ये लिहा (कोणतेही चार)

०४

प्र.४ **तुम्ही खालील विधानांशी सहमत आहात किंवा असहमत आहात हेसकारण स्पष्ट करा.**
(कोणताही 1)
१. वस्तु विनिमय पद्धतीमध्ये कोणतीही अडचण नव्हती.
२. मानवी गरजा ऋतू आणि पसंतीनुसार बदलत असतात.